PROCESSO SELETIVO E VESTIBULAR UNIFICADO 2017/1 IFTO

Caderno de Prova
Cursos Técnicos Concomitantes ao Ensino Médio
4.12.2016

Instruções

Leia atentamente as instruções da prova.

1. Este CADERNO DE PROVA contém 40 questões, numeradas de 1 a 40, dispostas da seguinte maneira:
a) 10 questões de Língua Portuguesa;
b) 10 questões de Matemática;
c) 10 questões de Ciências;
d) 5 questões de História;
e) 5 questões de Geografia.
2. Cada questão contém cinco alternativas e apenas uma delas deverá ser escolhida. Você receberá também um CARTÃO-RESPOSTA, que NÃO poderá ter rasuras, emendas ou dobraduras, pois isso impossibilitará sua leitura. Lembre-se: o Cartão-Resposta é nominal e insubstituível, e não será fornecida outra cópia desta, exceto por erro de impressão.
3. Confira se o seu Caderno de Prova contém a quantidade de questões indicadas no item anterior. Caso o caderno esteja incompleto, tenha defeito ou apresente qualquer divergência, comunique ao fiscal da sala para que ele tome as providências cabíveis.
4. Para cada uma das questões objetivas, são apresentadas 5 opções. Apenas uma responde corretamente à questão.
5. O tempo disponível para resolver as questões desta prova é de **3h30**. Assim, recomendamos que o candidato leia com atenção todas as questões, e, inicialmente, marque no seu Caderno de Provas a alternativa que julgar correta.
6. Reserve os **30 minutos** finais para marcar as alternativas selecionadas de cada questão no Cartão-Resposta, observando bem o número da questão e a letra escolhida. Preencha todo o espaço correspondente à alternativa, não ultrapassando seus limites e evitando borrões. A marcação de mais de uma alternativa anulará a questão.
7. **Assine o Cartão-Resposta** no local indicado, tendo o cuidado de não ultrapassar os limites.
8. Não será permitido, sob nenhum argumento, o uso de aparelhos de comunicação – telefones celulares, por exemplo – durante a realização das provas.
9. A saída do candidato só será permitida após **2 horas** de duração da prova, porém, somente poderá levar consigo o seu caderno de prova após **3 horas** de duração da prova.

INSTITUTO FEDERAL
Tocantins

LINGUAGENS, CÓDIGOS E SUAS TECNOLOGIAS

PORTUGUÊS

Leia o texto a seguir para responder às questões 1 e 2.

Revogue-se

Relacionamentos se constroem ao longo dos anos de sua duração: os dois parceiros vão tramar consciente ou inconscientemente a teia que os vai envolver ou separar, o casulo onde vão abrigar ou sufocar seus filhos.
Amor não deveria ser prisão ou dever, mas crescimento e libertação. Porém, se gostamos de alguma coisa ou de alguém, queremos que esteja sempre conosco. Perda e separação significam sofrimento, mas não o fim da vida nem o fim de todos os afetos.
Certa vez me entregaram um bilhete que dizia: "Se você ama alguém, deixe-o livre."
Poucas afirmações são tão difíceis de cumprir, poucas contêm tamanha sabedoria em relação aos amores [...]. Amor é risco, viver é risco. Pois permitir, até querer que o outro cresça ao nosso lado, pode significar que crescerá afastando-se de nós.
Mas – essa é a força e a beleza do desafio de uma vida a dois – o outro, crescendo, pode se abrir mais para nós, que participaremos dessa expansão. Instaura-se uma instigante parceria amorosa, na qual o tempo não servirá para desgaste, mas para construção. É um processo de refinamento da cumplicidade que brilha em algumas relações mesmo depois de muitos anos, muitas perdas, e muitos difíceis recomeços – desde que haja sobre o que reconstruir. [...]

LUFT, Lya. Pensar é transgredir. Rio de Janeiro: Record, 2005. p. 145. (Fragmento).

QUESTÃO 1: Após a leitura do primeiro parágrafo do texto, podemos dizer que o tema a ser desenvolvido pela cronista é:

A) A construção dos relacionamentos entre parceiros de um casal e também entre pais e filhos.
B) A construção dos relacionamentos, de forma geral, ao longo dos tempos.
C) A atitude de pais superprotetores que acabam "sufocando" os filhos.
D) A construção de relacionamentos superficiais, em virtude da falta de tempo, própria da sociedade moderna.
E) A falta de consciência dos pais que não dão liberdade aos filhos.

QUESTÃO 2: Analise o excerto abaixo, extraído do texto.

Certa vez me entregaram um bilhete que dizia: "Se você ama alguém, deixe-o livre."

As aspas foram empregadas para:
A) Marcar o diálogo em substituição ao travessão.
B) Destacar uma palavra ou expressão dentro da frase.
C) Indicar uma citação.
D) Dar outra conotação à palavra "livre".
E) Indicar a fala de um personagem.

QUESTÃO 3: Leia a tirinha de Laerte, a seguir:

Laerte. Disponível em: <http://www2.uol.com.br/laerte/tiras/>. Acesso em: 7 jun. 2011.

Disponível em: http://atividadesdeportugueseliteratura.blogspot.com.br/. Acesso em: 31 out. 2016.

O funcionário do zoológico queria que o colega distraísse a onça por algum tempo. Qual é a palavra, em sua fala, que expressa a noção de tempo e a qual classe gramatical ela pertence?

A) A palavra é "distrai", e pertence à classe gramatical dos verbos.
B) A palavra é "enquanto", e pertence à classe gramatical dos advérbios.
C) A palavra é "enquanto", e pertence à classe gramatical das preposições.
D) A palavra é "enquanto", e pertence à classe gramatical das conjunções.
E) A palavra é "dou", e pertence à classe gramatical dos verbos.

Leia a charge a seguir para responder à próxima questão.

Disponível em: veredasdalingua.blogspot.com.br. Acesso em 27 out. 2016.

QUESTÃO 4: A frustração do primeiro interlocutor, quando diz, no último quadrinho, ***Esquece o que eu perguntei***, se dá em razão de o segundo interlocutor:

A) Considerar um menosprezo as funções de Imperador ou Czar.
B) Ao demonstrar o seu interesse em preservar o seu *status*, ter quebrado a expectativa.
C) Ter atribuído à pergunta um sentido exclusivamente conotativo.
D) Ao responder que pensava seriamente no assunto, demonstrar interesse em uma atividade bem diversa daquela que desempenha.
E) Demonstrar não se sentir à vontade na função de rei.

QUESTÃO 5: A respeito da conotação e da denotação, observe o quadrinho a seguir e assinale a alternativa correta.

Disponível em: portugues.uol.com.br. Acesso em: 27 out. 2016.

A) Se substituíssemos a expressão "pendurar a conta" por "comprar fiado", não alteraria a relação de conotação.
B) Os dois questionamentos iniciais têm um sentido retórico; a resposta, no terceiro quadrinho, mantém esse mesmo sentido.
C) Se a indagação do primeiro quadrinho fosse: "Por que estou aqui, nesse bar, a essa hora da noite?" A palavra ***aqui*** manteria o mesmo sentido do quadrinho.
D) É exemplo de conotação a palavra ***sentido*** em: "linha de ônibus no ***sentido*** norte-sul".
E) ***Pendurar a conta*** tem sentido conotativo no contexto do terceiro quadrinho.

QUESTÃO 6: As palavras **pitoresca, alastrou, matriz** e **aquela**, como classe de palavras, são, respectivamente:

A) Adjetivo, verbo, substantivo, pronome.
B) Advérbio, adjetivo, substantivo, pronome.
C) Adjetivo, advérbio, preposição, conjunção.
D) Adjetivo, verbo, adjetivo, advérbio.
E) Pronome, verbo, adjetivo, advérbio.

QUESTÃO 7: Em um hipotético diálogo, um matuto diz a seguinte frase: ***Nóis apricêia muito os concêio que tu qué dá pra nóis.***

Para grafarmos este trecho em conformidade com a norma-padrão da linguagem, teríamos:

A) Nós apreciaríamos muito os conselhos que você quer dar-nos.
B) Nós apreciaríamos muito os conselhos que tu quer dar.
C) Nós apreciaremos muito os conselhos que você quer dar para nós.
D) Nós apreciamos muito os conselhos que tu queres nos dar.
E) Nós apreciamos muito os conselhos que você quer dá a nós.

Leia a charge abaixo para responder às questões 8 e 9.

Disponível em: espaonet.blogspot.com.br Acesso em: 1 nov. 2016.

QUESTÃO 8: O efeito de humor da charge é causado:

A) Pelo fato de o estudante não conhecer as regras de regência verbal, abordadas na questão da professora, e dar uma resposta qualquer à pergunta feita por ela.
B) Pelo fato de o estudante não conhecer as regras de concordância verbal, e inventar uma resposta inusitada para a professora.
C) Pelo fato de o estudante utilizar a expressão coloquial "mané" em um contexto formal de comunicação.
D) Pelo fato de a professora não fazer a pergunta de forma adequada.
E) Pela resposta inesperada do estudante ao questionamento da professora, a qual esperava que o aluno fizesse apenas uma análise da estrutura linguística da frase e não uma reflexão crítica.

QUESTÃO 9: Essa charge foi publicada em um blog que tem como objetivo a publicação de textos que promovam reflexões sobre a realidade brasileira. Assim sendo, além do efeito humorístico, é possível notar uma crítica social na charge lida, a qual é construída a partir:
A) Do pressuposto de que o sistema educacional brasileiro não é eficiente.
B) Do pressuposto de que os estudantes brasileiros não conhecem as regras gramaticais da língua portuguesa.
C) Do pressuposto estereotipado de que todos os políticos brasileiros são desonestos.
D) Do pressuposto de que os eleitores confiam na honestidade dos políticos.
E) Do pressuposto de que, na época de campanhas eleitorais, os candidatos sempre fazem promessas que não são cumpridas após a eleição.

QUESTÃO 10: Assinale a alternativa cuja predicação dos verbos destacados está classificada de modo correto, respectivamente.

I - A criança **tossiu** a noite inteira.
II - Os funcionários **permanecem** satisfeitos com seus salários.
III - O hóspede **quebrou** a maçaneta da porta do quarto.

A) Intransitivo – verbo de ligação – transitivo indireto.
B) Intransitivo – verbo de ligação – transitivo direto.
C) Transitivo direto – verbo de ligação – transitivo indireto.
D) Verbo de ligação – transitivo direto – intransitivo.
E) Intransitivo – transitivo direto – transitivo indireto.

MATEMÁTICA E SUAS TECNOLOGIAS

QUESTÃO 11: O volume, em litro, equivalente a um cubo de 2 m de aresta é:

A) 8
B) 8000.
C) 0,8.
D) 2.
E) 2000.

QUESTÃO 12: Um engenheiro civil projetou um reservatório para armazenar água na forma de um paralelepípedo para um cliente. Insatisfeito com o formato e com a capacidade do reservatório, o cliente solicitou que a área da base fosse 20% menor, e que a altura fosse maior em 40%. Com base nisto, o engenheiro civil realizou as alterações solicitadas pelo cliente, e observou que a capacidade do novo projeto, comparado com o inicial, é:

A) 12,0% maior.
B) 20,0% maior.
C) 18,0% maior.
D) 68,0% maior.
E) 10,4% menor.

QUESTÃO 13: Se $P(x)=2x^4-x^2-x+5$, então P(-2) é:

A) 39.
B) 43.
C) 31.
D) - 21.
E) 35.

QUESTÃO 14: Se o diâmetro de um círculo foi dobrado, então sua área foi:

A) Diminuída duas vezes.
B) Aumentada duas vezes.

C) Aumentada oito vezes.
D) Aumentada quatro vezes.
E) Diminuída quatro vezes.

QUESTÃO 15: Na figura a seguir, os lados $\overline{BC}$ e $\overline{DE}$ são paralelos.

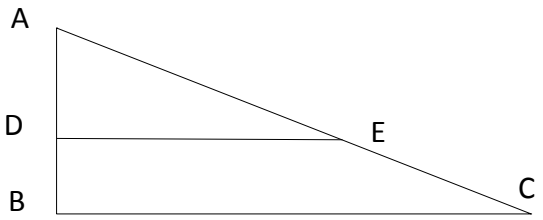

Se $\overline{BC}=10\,m$, $\overline{DE}=6\,m$ e $\overline{BD}=12\,m$, então o comprimento de $\overline{AD}$ é:

A) 14 m.
B) 16 m.
C) 18 m.
D) 12 m.
E) 24 m.

QUESTÃO 16: Ao ir a uma concessionária, Pedro, que está querendo comprar um carro zero quilômetro, obteve do vendedor algumas formas de pagamento. Uma delas seria pagar o carro a vista, com desconto de 14%. Se o preço do carro, sem desconto, é R$ 45.000,00, o valor que ele pagará no carro com o desconto é:

A) R$ 38.700,00.
B) R$ 39.700,00
C) R$ 40.700,00.
D) R$ 37.700,00.
E) R$ 36.700,00.

QUESTÃO 17: Uma circunferência está inscrita em um triângulo equilátero. Se o comprimento do raio dessa circunferência é de 5 cm, o comprimento do lado desse triângulo é de:

A)10 cm.
B) $5\sqrt{3}$ cm
C) $10\sqrt{3}$ cm.
D) 20 cm.
E) $20\sqrt{3}$ cm.

QUESTÃO 18: O médico receitou três tipos de remédios a um de seus pacientes. Cada medicamento deve ser tomado em intervalos de tempo diferentes. O primeiro deve ser tomado de seis em seis horas; o segundo, de quatro em quatro horas; e o terceiro, de cinco em cinco horas. Se ele começar a tomar os três medicamentos juntos, ele tomará novamente os três medicamentos juntos após:

A) 30 horas.
B) 60 horas.
C) 40 horas.
D) 50 horas.
E) 90 horas.

QUESTÃO 19: O velocista jamaicano Usain Bolt, recordista dos 100 e dos 200 metros rasos, é o homem mais rápido do mundo. Seu recorde nos 100 metros é de 9,58 segundos. Se ele resolvesse correr os 400 metros rasos, mantendo o mesmo desempenho dos 100 metros, o tempo que ele gastaria para completar a prova seria:

A) 36,32 segundos.
B) 32,38 segundos.
C) 34,52 segundos.
D) 38,32 segundos.
E) 39,38 segundos.

QUESTÃO 20: A figura a seguir está representado um retângulo e um losango dentro do retângulo. As diagonais do losango medem 16 cm e 10 cm. A área do retângulo excede a do losango em:

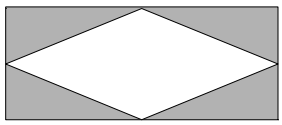

A) 60 m².
B) 160 m².
C) 120 m².
D) 100 m².
E) 80 m².

CIÊNCIAS DA NATUREZA E SUAS TECNOLOGIAS

CIÊNCIAS

QUESTÃO 21: Marque V para as verdadeiras e F para as falsas nas seguintes afirmações:

( ) Quando um leão mata um coelho para se alimentar, a relação ecológica é o **inquilinismo**.
( ) O protozoário vive no intestino do cupim causando prejuízos a ele. É um exemplo de **mutualismo**.
( ) **Parasitismo** é um tipo de relação ecológica que existe entre os bois e os carrapatos que sugam o seu sangue.
( ) O peixe-piolho (rêmora) se alimenta dos restos de comida do tubarão. Esta relação é do tipo **comensalismo**.

A opção correta é:

a) F / F / V / V.
b) V / V / F / F.
c) V/ F / V / F.
d) F / V / V / F.
E) F / V / F / V.

QUESTÃO 22: Observe a ilustração na tirinha a seguir:



Disponível em: especificadefisica.com.br Acesso em: 31out. 2016.

Considerando que a massa de uma pessoa adulta é 74 kg, o seu peso no planeta Terra é aproximadamente:

A) 0,74 N.
B) 7400 N.
C) 74 N.
D) 7,4 N.
E) 740 N.

QUESTÃO 23: Um projétil disparado por arma de fogo pode atingir a velocidade escalar de 930 m/s. Considerando que o projétil gasta 0,3 milésimos de segundo desde a explosão até abandonar a arma, pode-se afirmar que a sua aceleração escalar média nesse intervalo de tempo vale:
Dado: (1 milésimo de segundo = 0,001 s).

A) 3.100.000 m/s².
B) 3.100 m/s².
C) 31 m/s².
D) 27,9 m/s².
E) 279 m/s².

QUESTÃO 24: A onda sonora é de natureza:

A) Eletromagnética.
B) Mecânica.
C) Elétrica.
D) De rádio.
E) Magnética.

QUESTÃO 25: João mora em Palmas, e sai de casa às 7 horas da manhã para ir à sua fazenda, que fica em Dianópolis. Ele chega lá às 10 horas da manhã. João lê no painel do carro que a distância que ele percorreu foi de 300 quilômetros. Sendo assim, a velocidade média de João no trajeto foi de:

A) 50 km/h.
B) 300 km/h.
C) 100 km/h.
D) 150 km/h.
E) 200 km/h.

QUESTÃO 26: No movimento uniforme temos que a velocidade é constante, já no movimento uniformemente variado temos que:

A) A velocidade e a aceleração são constantes.
B) O tempo é constante.
C) O espaço é constante.
D) A aceleração é constante.
E) O tempo e a velocidade são constantes.

QUESTÃO 27: Observe abaixo a imagem que representa uma transformação da substância água, bastante comum em nosso cotidiano.



Disponível em: google.com.br. Acesso em: 3 nov. 2016.

Sobre esse processo, é correto afirmar que:

A) É uma transformação do tipo química, caracterizada pela redução da temperatura do sistema, nomeada como solidificação.
B) É uma transformação do tipo física, caracterizada pelo aumento da temperatura do sistema, nomeada como fusão.
C) É uma transformação do tipo física, caracterizada pela redução da temperatura do sistema, nomeada como solidificação.
D) É uma transformação do tipo química, caracterizada pelo aumento da temperatura do sistema, nomeada como vaporização.
E) É uma transformação do tipo física, caracterizada pela redução da temperatura do sistema, nomeada como fusão.

QUESTÃO 28: A pirita, um importante mineral constituído principalmente de sulfeto de ferro, é extraído pela indústria mineradora para a obtenção do ferro para a fabricação do aço. Uma amostra de 200 g desse mineral foi introduzido em uma proveta contendo um volume de água de 100 cm^3, e, após sua introdução, o volume subiu para 140 cm^3.

Antes **Depois**

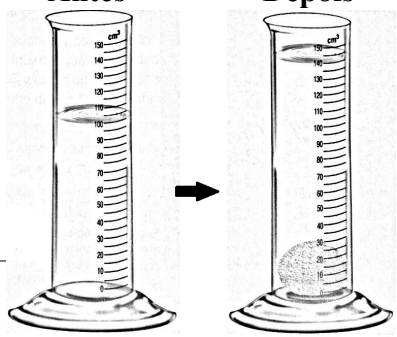

Disponível em: TRIVELLATO, J.; et al. **Ciências**, 9° ano. 1ª edição. São Paulo – Quinteto Editorial. 2015.

Por meio deste procedimento, foi possível constatar que a densidade dessa amostra de pirita, em g/cm^3, é igual a:

A) 4,0.
B) 1,2.
C) 1,3.
D) 2,0.
E) 5,0.

QUESTÃO 29: Na tabela abaixo, são dados os pontos de fusão e de ebulição de algumas substâncias:

SUBSTÂNCIA	FUSÃO (ºC)	EBULIÇÃO (ºC)
I- ÁLCOOL	-114	78
II- ÁGUA	0	100
III- OXIGÊNIO	-218	-183
IV- ÉTER	-116	35

Identifique os estados físicos destas substâncias a 40ºC.

A) I - gasoso; II - líquido; III - sólido; IV - líquido.
B) I - líquido; II - líquido; III - gasoso; IV - gasoso.
C) I - sólido; II - líquido; III - sólido; IV - líquido.
D) I - líquido; II - sólido; III - sólido; IV - gasoso.
E) I - líquido; II - gasoso; III - gasoso; IV - gasoso.

QUESTÃO 30: A alimentação é muito importante para o desenvolvimento e para a saúde dos seres humanos. Uma dieta saudável deve conter alimentos que desempenhem função energética, plástica e reguladora no organismo, de forma equilibrada.
As alternativas abaixo correspondem a diferentes cardápios oferecidos a uma criança. Entre elas, a que apresenta a opção mais rica em fibras, água e sais minerais é:

A) Ovos mexidos com bacon.
B) Leite com achocolatado.
C) Salada de banana com laranja.
D) Bife com batatas fritas.

E) Pão com manteiga e queijo.

CIÊNCIAS HUMANAS E SUAS TECNOLOGIAS

HISTÓRIA

QUESTÃO 31: Sobre a descoberta e a colonização das Américas, identifique a afirmação correta:

A) O saque do ouro das civilizações ameríndias fez da Espanha a mais poderosa nação comercial, passo seguido por Portugal, após a descoberta de ouro nas Minas Gerais.
B) Tanto na América espanhola quanto portuguesa, a formação das populações foi constituída de densa mestiçagem de grande diversidade de povos, que tiveram acesso aos vários postos da administração colonial.
C) O vice-reino do Prata, que compreendia a região mais rica – ouro de Cuzco e prata de Potosí –, tinha como porto principal Buenos Aires, na foz da bacia do Rio da Prata.
D) Os sistemas coloniais português e espanhol guardam similaridade: ambos permaneceram, nos dois primeiros séculos, apenas ocupando o litoral; usaram larga força escrava indígena, africana; e ambos construíram universidades precocemente.
E) A descoberta do continente Americano foi um evento que marcou a modernidade e dinamizou o mercantilismo.

QUESTÃO 32: Sobre eventos da primeira metade do século XX, identifique a afirmação <u>incorreta:</u>

A) A URSS fez grande progresso econômico, em especial, após os planos quinquenais, quando todo o controle do Estado se concentrou nas mãos de Stálin, ditador da nação.
B) Com a derrota na Primeira Guerra Mundial, o Tratado de Versalhes impôs duras sanções à Alemanha, resultando em grande crise na década de 1920.
C) A Revolução Russa, em 1917, destruiu a monarquia Czarista, isolou-a nas relações internacionais e elaborou uma economia de guerra que evoluiu em planejamento permanente.
D) O Congresso de Haia foi um evento diplomático na primeira década do século, cuja finalidade era definir os limites coloniais dos impérios.
E) A ascensão do partido nazista na Alemanha foi seguida do golpe de Estado liderado por Hitler, que concentrou todos os esforços da nação para a produção de poderosa máquina de guerra, derrotada na Segunda Guerra Mundial.

QUESTÃO 33: Sobre o mundo pós Segunda Guerra Mundial, identifique a afirmação <u>incorreta</u>:

A) Na segunda metade do século XX, a América Latina foi conduzida, em grande medida, pelos interesses geopolíticos e das grandes corporações dos EUA. Dinâmica que persiste no século XXI.
B) O processo de descolonização Afro-asiática foi possível com o fim da Segunda Guerra Mundial, mas gerando um longo processo conflituoso por décadas.
C) A descolonização Afro-asiática resultou num conjunto muito heterogêneo de novas nações, que ficaram conhecidas como Terceiro Mundo.
D) A Crise do Socialismo, no final da década de 1970, também foi seguida do processo de estagflação nos EUA, eventos que apressaram as negociações para o fim da Guerra Fria.
E) O Plano Marshall foi uma estratégia dos EUA para submeter a Europa à OTAN.

QUESTÃO 34: Sobre a República Brasileira de 1930 a 1964, identifique a afirmação <u>incorreta</u>:

A) O populismo é um fenômeno latino-americano em que o elemento principal é um grande líder popular numa sociedade muito desigual. Getúlio Vargas foi o primeiro populista brasileiro.
B) O Estado Novo foi a ditadura imposta por Getúlio Vargas, que durou de 1937 a 1945.
C) A Revolução de 1930 encerrou o pacto entre as oligarquias, e impôs uma nova constituição ao país.
D) A Democracia de 1946 a 1964 foi uma breve, mas de densa participação popular, diversos partidos políticos, sociedade dinâmica e vida artístico-cultural marcantes.
E) Com a renúncia de Jânio Quadros, João Goulart assumiu, propôs uma série de reformas de base, mas seu governo foi interrompido pelo golpe de 1964.

QUESTÃO 35: Sobre o período da Ditadura Civil Militar (1964-1985) e o processo de abertura política do Brasil, identifique a afirmação incorreta:

A) A política pós 1964 passou a ser exercida pelo poder puro da força policial, mas com encenação bipartidária: Arena e PDT.
B) Na década de 1970, a ocupação das bordas da Amazônia legal produziu um ótimo desempenho na economia nacional.
C) Milagre Econômico Brasileiro foi um fenômeno de grande crescimento do PIB por vários anos da década de 1970.
D) Abertura política ocorreu de modo controlado, lento e gradual, iniciando com a Anistia e terminando com a eleição indireta para presidente em 1984.
E) Diretas Já foi um grande fenômeno popular em que a população pedia eleição direta para presidente.

GEOGRAFIA

QUESTÃO 36: As grandes navegações marcam a descoberta de novos mundos (continentes) para os europeus, e também o estabelecimento das relações entre colônia e metrópole.

Marque a alternativa que apresenta uma colônia e sua metrópole, respectivamente.

A) Brasil – Inglaterra.
B) Brasil – Portugal.
C) Estados Unidos da América – Portugal.
D) Canadá – Portugal.
E) Brasil – Estados Unidos da América.

QUESTÃO 37: O Brasil entrou no século XXI com uma mudança de postura para uma política externa e ativa independente, embora não totalmente, procurando se afirmar como líder na América do Sul. Essa postura rendeu ao Brasil a classificação de país:

A) Em moratória econômica.
B) Desenvolvido.
C) Periférico deprimido.
D) Emergente.
E) Comunista.

QUESTÃO 38: Coordenada geográfica é um sistema de referência e posicionamento em que ocorre a intersecção entre um paralelo e um meridiano.

O principal paralelo que divide a terra em dois hemisférios - Norte e Sul - é denominado:

A) Círculo Polar Antártico.
B) Trópico de Capricórnio.
C) Trópico de Câncer.
D) Greenwich.
E) Equador.

QUESTÃO 39: A globalização faz parte da atualidade, isso pode ser percebido por diversos sinais, como:

A) A destruição dos espaços naturais.
B) O avanço das economias socialistas.
C) A diminuição da pobreza.
D) Os baixos preços dos alimentos.
E) O aumento no número de empregos.

QUESTÃO 40: A industrialização brasileira deu-se lentamente, e teve uma grande propulsão com o rompimento de obstáculos e de medidas políticas dos governos de Getúlio Vargas e de Juscelino Kubistchek, que foram imprescindíveis para que as indústrias se proliferassem no Brasil. Pois os longos anos em que o território brasileiro foi colônia portuguesa, a economia se restringiu à prática de *plantation*.
Adaptado de: getulionascimento.com.

Com o processo da industrialização, o Brasil deixou de ser rural e passou a ser urbano. Um dos movimentos que propiciou a urbanização do Brasil foi:

A) Migração de transumância.
B) Migração pendular.
C) Êxodo rural.
D) Libertação dos escravos.
E) A década perdida.